Школьный этап Всероссийской олимпиады школьников по географии

7 класс

Тестовый тур

0б **1. Наука, изучающая природу земной поверхности, называется**
а) лимнология, б) биология, в) физическая география, г) геология.

1б **2. Модель, уменьшенная копия Земли, - это:**
а) аэрофотоснимок, б) план местности, в) глобус, г) географическая карта.

1б **3. Антарктиду открыл:**
а) Юрий Лисянский, б) Иван Крузенштерн, в) Фаддей Беллинсгаузен, г) Руаль Амундсен.

1б **4. Самым верхним слоем материковой земной коры является:**
а) базальтовый б) осадочный в) гранитный г) кварцевый

0б **5. Горная порода метаморфического происхождения – это:**
а) глина, б) мрамор, в) известняк, г) гранит

1б **6. Используя данные климатограммы, определите верное утверждение:**

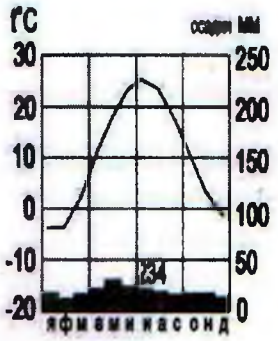

а) Среднегодовое количество атмосферных осадков составляет менее 200 мм
б) Температуры воздуха в декабре выше, чем в мае;
в) Максимальное количество атмосферных осадков приходится на сентябрь
г) В течение всего года температура воздуха не опускалась ниже -5^0 С;

1б **7. По радио передали: «Влажность воздуха в городе составляет 55%». О чем идет речь?**
а) об абсолютной влажности,
б) об относительной влажности,
в) абсолютной и относительной влажности,
г) о повышении давления.

1б **8. Самый жаркий материк - это**
а) Африка б) Австралия в) Южная Америка, г) Антарктида

1б **9. Самый крупный масштаб – это:**
а) 1:10 000
б) 1:25 000
в) 1:40 000
г) 1:250 000

1б **10. Материки, которые пересекаются экватором, - это:**
а) Африка и Южная Америка б) Антарктида и Евразия в) Евразия и Африка г) Южная Америка и Евразия

0б **11. Корабль, на котором было совершено первое кругосветное путешествие – это:**
а) «Золотая лань» б) «Надежда» в) «Санта-Мария» г) «Виктория»

1б **12. Выберите верную пару:**
а) Гималаи - Эверест, б) Альпы – Белуха,
в) Кавказ - Народная, г) Анды – Эверест.

0+05

1б **13. Самый глубокий океан:**

а) Северный Ледовитый б) Тихий в) Атлантический г) Индийский

1б **14. Страна-рекордсмен по численности населения мира:**

а) Индия б) Россия в) США г) Китай

1б **15. Какой из указанных островов самый крупный?**

а) Сахалин б) Мадагаскар, в) Гренландия, г) Шри-Ланка

Аналитический тур

5б **Задание №1.** Прочитайте отрывок, ответьте на предложенные вопросы:

Зимой материк бывает более холодный и, следовательно, давление над ним более высокое, чем над океаном. И воздушные массы, как известно, перемещаются из областей с высоким давлением в области с пониженным давлением. В переводе с арабского языка это ветер называется «Сезон».

1. О каком ветре идет речь?
2. В каких районах страны мы можем наблюдать эти ветры?
3. В чем проявляется их влияние на климат?

5б **Задание №2.** Заполнить таблицу. Соотнести: название прибора (барометр, гигрометр, осадкомер, флюгер, эхолот); единица измерения (балл, метр, миллиметр, миллиметр ртутного столба, процент). Укажите что определяют приведенные в таблице приборы.

Фотография прибора	Название прибора	Единицы измерения	Что определяет?
	Осадкомер	Балл	Осадки
	Барометр	Миллиметр	Атмосфер-ное давление

	Эвелон	Миллиметр ртутного столба	Температура
	Флюгер	Метр	Скорость ветра
	Гигрометр	Процент	

5б **Задание №3.** Выберите из перечисленных названий стран те страны, название которых совпадают с названиями их столиц.

Китай, Алжир, Индия, Великобритания, Панама, США, Франция, Тунис, Бразилия, Польша.
Укажите страну, по территории которой проложен канал, соединяющий два океана.

Назовите эти океаны.

5б **Задание №4.**Этот мореплаватель португалец по происхождению, но сменил подданство на испанское. Его экспедиция совершила первое кругосветное плавание. В 1519-1521 гг. он руководил испанской экспедицией по поиску западного пути к Молуккским островам. Первым пересёк Тихий океан, достиг Филиппинских островов, где погиб в схватке с местными жителями. Плавание завершил другой капитан, его помощник, который, затем на своём фамильном гербе изобразивший Землю и подписавший: «Я тот, кто тебя обогнул».

Кто эти путешественники? Какие географические объекты носят имя первого мореплавателя?

4б **Задание №5.**Третью часть материка занимают пустыни, одна из них является крупнейшей в мире, её площадь около 8 млн км^2. Назовите пустыню. О каком материке идёт речь? Перечислите ещё 5 пустынь этого материка. Что такое эрги и гамады?

30,5б. / 70%

№1. Этот ветер называется циклоном. Его можно наблюдать на Дальнем Востоке. Из-за циклона повышается давление и выпадает много осадков.

№3. Алжир, Панама, Тунис — страны, имеющие то же название, что и их столицы. По территории США проложен канал, соединяющий 2 океана

№4. Мореплаватель — Магеллан, в честь которого назван пролив Магеллана

№5. Материк — Африка, пустыня Сахара